Numération CM1 : des fractions aux nombres décimaux (2)

1- Complète :



Quelle fraction est égale à 0,5 ? $\frac{\cdots}{10}$ Place-la sur la ligne.

Quelle fraction est égale à 1,5 ? $\frac{\cdots}{10}$ Place-la sur la ligne.

2 – Complète les fractions puis indique les décimaux correspondants aux lettres, dans le tableau :

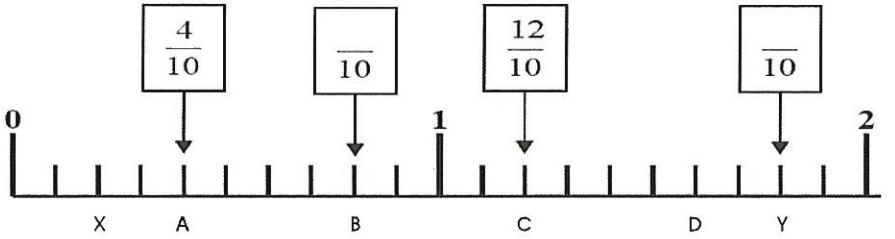

A =	B =	C =
D =	X =	Y =

3 – Pour chaque repère, indique le nombre décimal qui correspond :

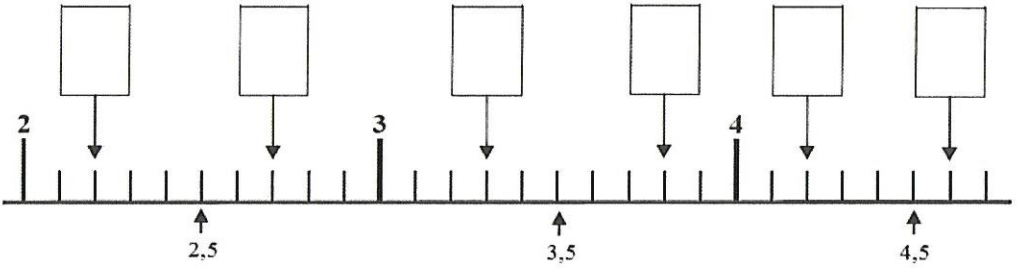

Fractions : dixièmes et nombres décimaux.

Mon nom : .....

➲ Complète le tableau... Différentes écritures d'un même nombre :

	Classe des unités simples			Partie décimale						
	Centaines	Dizaines	Unités	Dixièmes	/	/		Fraction	Nombre décimal	Partie entière + partie fractionnaire
62 dixièmes ⇨							⇨	$\frac{\quad}{\quad}$	… , …	… + $\frac{\quad}{\quad}$
8 dixièmes ⇨							⇨	$\frac{\quad}{\quad}$	… , …	… + $\frac{\quad}{\quad}$
23 unités ⇨							⇨	$\frac{\quad}{\quad}$	… , …	… + $\frac{\quad}{\quad}$
102 dixièmes ⇨							⇨	$\frac{\quad}{\quad}$	… , …	… + $\frac{\quad}{\quad}$
6 dixièmes ⇨							⇨	$\frac{\quad}{\quad}$	… , …	… + $\frac{\quad}{\quad}$
801 dixièmes ⇨							⇨	$\frac{\quad}{\quad}$	… , …	… + $\frac{\quad}{\quad}$
8 dizaines ⇨							⇨	$\frac{\quad}{\quad}$	… , …	… + $\frac{\quad}{\quad}$

➲ Complète :

$\frac{13}{10}$ = … , …

$\frac{7}{10}$ = … , …

$\frac{107}{10}$ = … , …

$\frac{\dots}{\dots}$ = 1,5

$\frac{\dots}{\dots}$ = 23,9

$\frac{\dots}{\dots}$ = 0,7

$\frac{103}{10}$ = … , …

$\frac{100}{10}$ = … , …

$\frac{97}{10}$ = … , …

$\frac{\dots}{\dots}$ = 10,1

$\frac{\dots}{\dots}$ = 0,9

$\frac{\dots}{\dots}$ = 100,7