Les fractions décimales

S'entrainer

1 Ecris au bon endroit sous la droite graduée les fractions correspondant aux étoiles.



2 Ecris en lettres chaque fraction :

$\frac{10}{100}$ _____

$\frac{1}{10}$ _____

$\frac{35}{100}$ _____

3 Reproduis sur ton cahier la droite graduée et place les fractions suivantes :

$\frac{15}{10}$ $\frac{8}{10}$ $\frac{10}{10}$ $\frac{5}{10}$ $\frac{12}{10}$

4 Le carré ci-dessous fait 10 carreaux de côté.

a/ Colorie $\frac{3}{10}$ du carré en jaune ; $\frac{15}{100}$ du carré en bleu et $\frac{7}{100}$ du carré en vert.



b/ Quelle fraction du carré est coloriée en tout ?

_____

c/ Quelle fraction du carré n'est pas colorée ?

_____

Les fractions décimales

S'entraîner

1 Ecris au bon endroit sous la droite graduée les fractions correspondant aux étoiles.

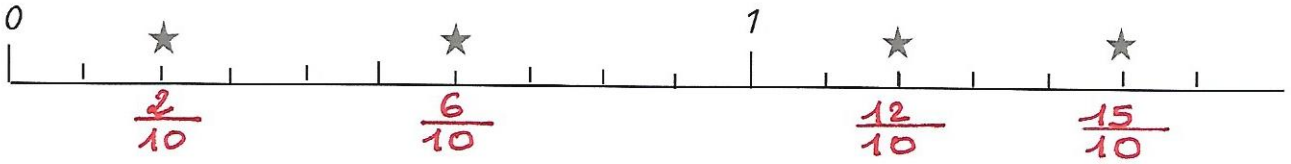

2 Ecris en lettres chaque fraction :

$\frac{10}{100}$ dix centièmes

$\frac{1}{10}$ un dixième

$\frac{35}{100}$ trente-cinq centièmes

3 Reproduis sur ton cahier la droite graduée et place les fractions suivantes :

$\frac{15}{10}$ $\frac{8}{10}$ $\frac{10}{10}$ $\frac{5}{10}$ $\frac{12}{10}$

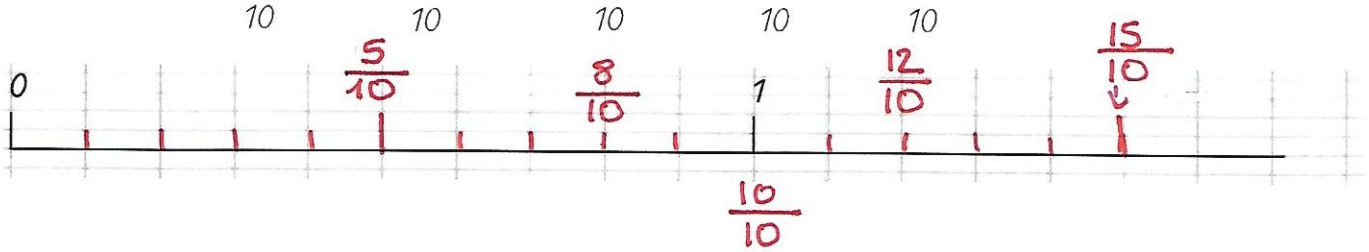

4 Le carré ci-dessous fait 10 carreaux de côté.

a/ Colorie $\frac{3}{10}$ du carré en jaune ; $\frac{15}{100}$ du carré en bleu et $\frac{7}{100}$ du carré en vert.

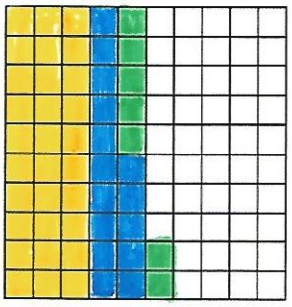

b/ Quelle fraction du carré est coloriée en tout ?

cinquante-deux centièmes $\frac{52}{100}$

c/ Quelle fraction du carré n'est pas colorée ?

quarante-huit centièmes $\frac{48}{100}$