23 Le jardinier du parc a tracé le plan du massif qui se trouve le long de l'allée (d). Reproduis ce plan sur ton cahier, puis trace un massif symétrique par rapport à l'allée (d).

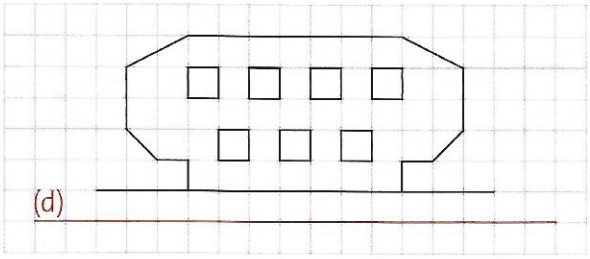

24 **Reproduis ce voilier sur ton cahier. Trace son symétrique par rapport à l'axe (d) pour obtenir son reflet dans l'eau.**

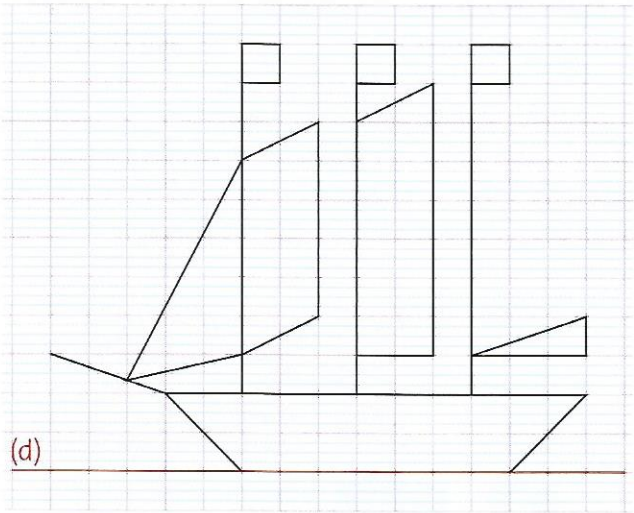

ORGANISATION ET GESTION DE DONNÉES

Pour chacun des énoncés suivants, écris l'opération qui te permettra de répondre à la question posée. Résous ensuite les problèmes. Tu peux t'aider de ta calculatrice.

25 Dans un verger, Charlotte a planté 16 rangées de 24 pêchers chacune.
Combien a-t-elle planté de pêchers ?

26 Une maîtresse achète 75 stylos bleus à 80 centimes pièce.
Combien va-t-elle payer ?

27 Une directrice a commandé 1 644 cahiers. Chaque élève de l'école recevra 6 cahiers.
Combien y a-t-il d'élèves dans cette école ?

28 Matis et Marius comptent leurs figurines. Matis en a 37 et Marius en a 12 de moins que Matis.
a. Combien Marius a-t-il de figurines ?
b. Combien de figurines ont-ils à eux deux ?

29 Le stade Vélodrome peut accueillir 67 500 personnes.
49 612 places ont déjà été vendues.
Combien de places peut-on encore vendre ?



Attention, pour les énoncés suivants, il y a plusieurs opérations à poser.

30 Loris a acheté 19 ballons de handball à 26 € et 25 ballons de football à 17 €.
a. Combien de ballons Loris a-t-il achetés ?
b. Quel sera le montant de sa facture sachant qu'il faut compter 27 € de frais de livraison ?

31 Au supermarché, la maman de Lou a acheté une poêle au prix de 79 €. À la caisse, la vendeuse lui fait une remise de 10 €.
Si elle paie avec un billet de 100 €, quelle somme d'argent lui rendra la vendeuse ?

32 M. Laurent installe une double clôture autour de son champ.

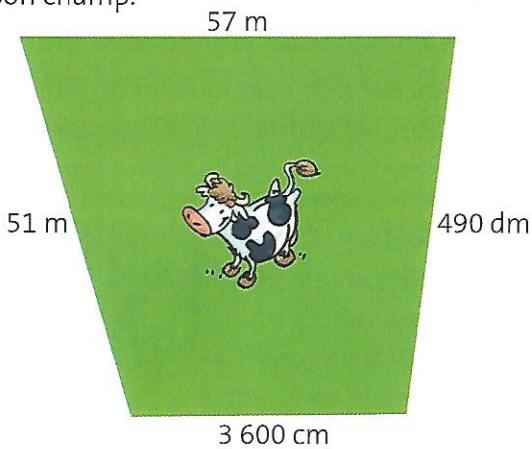

Quelle longueur de fil lui faudra-t-il ?

33 Cette semaine, Mme Dupont a fait 86 km en voiture tous les jours du lundi au vendredi. Pendant le week-end, elle a parcouru 247 km.
Quelle distance Mme Dupont a-t-elle parcourue dans la semaine ?